I NUMERI, L'ORDINE, IL CONFRONTO

✎SCRIVI IL NUMERO CHE SEGUE E QUELLO CHE PRECEDE

	11			9			13			7	
	8			12			10			1	

✎RISCRIVI QUESTI NUMERI IN ORDINE **CRESCENTE**

5 9 7 12 4 10 11

_____

✎RISCRIVI QUESTI NUMERI IN ORDINE **DECRESCENTE**

12 5 10 6 14 13 8

_____

✎CONFRONTA LE COPPIE DI NUMERI CON I SIMBOLI > < =

6		12	14		13	10		10	13		9
13		13	6		9	14		4	5		11

✎OSSERVA IL SIMBOLO DEL CONFRONTO E SCRIVI IL NUMERO MANCANTE ADATTO.

13	>		8	=		11	<		14	>	
	<	10		>	9		=	13		>	6

ADDIZIONI CON L'ABACO

✎ESEGUI LE ADDIZIONI CON L'ABACO DISEGNATO.

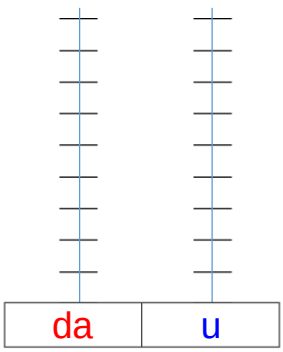

6 + 7 = _____

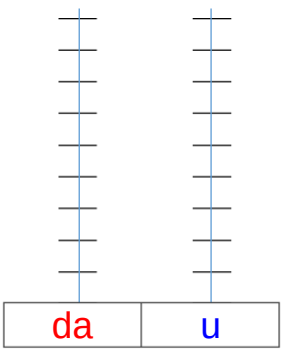

5 + 9 = _____

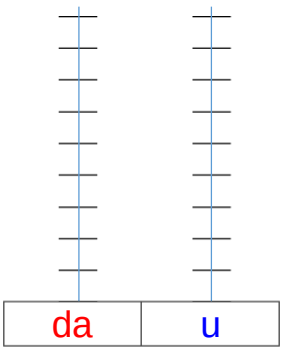

8 + 6 = _____

✎CONTINUA AD ESEGUIRE SUL QUADERNO QUESTE ADDIZIONI CON L'ABACO DISEGNATO.

5 + 8 = _____ 6 + 6 = _____ 4 + 9 = _____ 2 + 12 = _____